LANDSROYND
APRÍL- MAI 2013

4. FLOKKUR

Náttúra og tøkni

45 minuttir

Myndatøka: Sólgerð Andreassen

Navn:	Flokkur:
Skúli:	Lærari:

Svarini verða skrivað á uppgávuarkið. Um tað er onkur uppgáva, sum tú ikki dugir, far so víðari.

Tú kanst skriva við blýanti.

Føroyar

1. Tekna striku frá navni til rætta oyggj

Býir og fløgg

2. a) Tekna striku frá býnum til rætta landið.

Stokholm   Helsinki   Oslo   Keypmannahavn

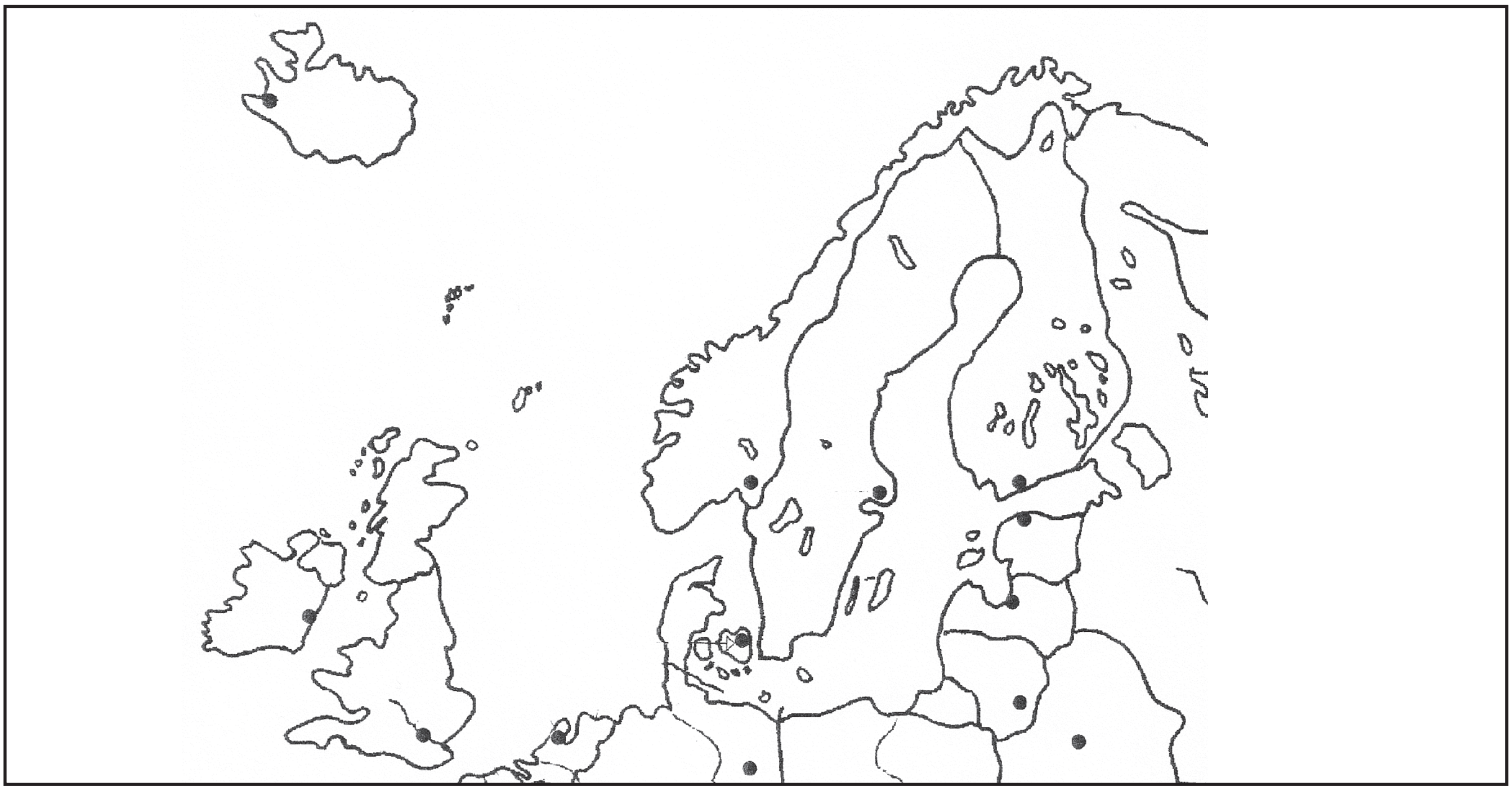



b) Tekna striku frá flaggi til rætta landið.

Fuglar

3. Set ring um flytifuglarnar.



Dýr í fjøruni

4. Tekna striku frá mynd til rætta navnið.

Fliða

Rípuskel

Purpurkúvingur



Lúsakrabbi

Toppkúvingur



Fjørukrabbi

Smákykt

5. Tekna striku frá mynd til rætta navnið.

Skolopendari

Ormafirvaldur

Tvísterta

Svartaklukka

Eiturkoppur

Veingjarguli

Plantur

6. Tekna striku frá mynd til rætta navnið.

Reyð akkuleya

Gloym meg ei
(mýrihoylús)

Sjógras

Brobber

Mýrisólja

Ellæra

7. Set x í kassan fyri rætt svar.

1. a) Lýsir peran í mynd 1?

Ja ☐ Nei ☐

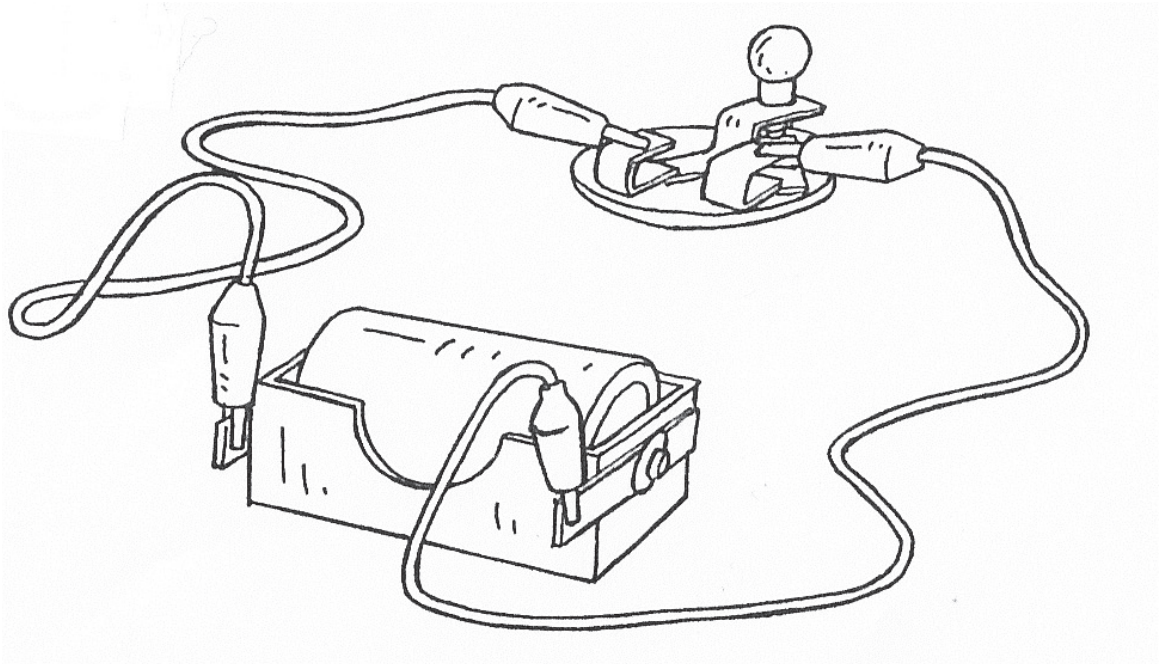

Mynd 1

b) Hví?

Tí peran er brostin ☐

Tí lutirnir eru skeivt settir saman ☐

Tí lutirnir eru rætt settir saman ☐

2. a) Lýsir peran í mynd 2?

Ja ☐ Nei ☐

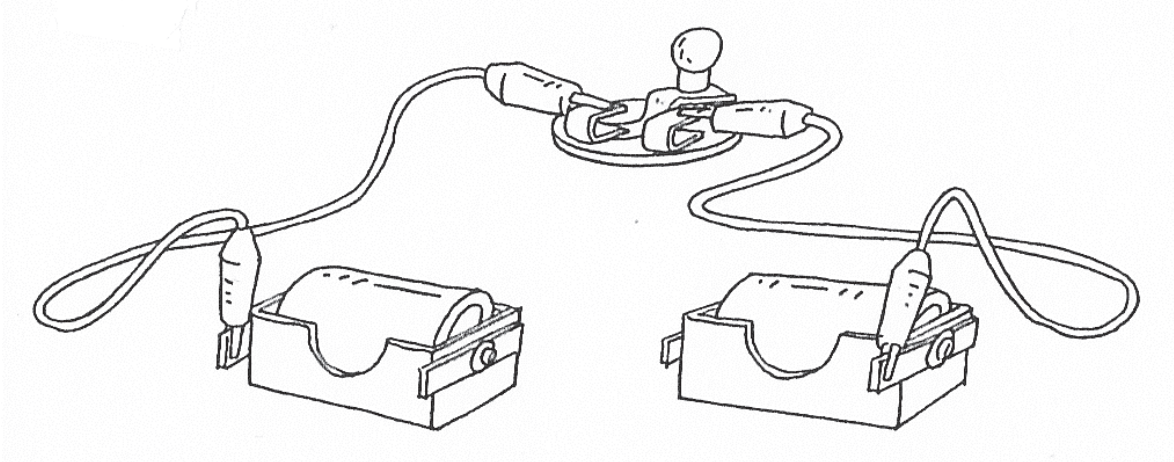

Mynd 2

b) Hví?

Tí battaríini venda skeivt ☐

Tí har manglar ein leidningur ☐

Tí lutirnir eru rætt settir saman ☐

3. a) Lýsir peran í mynd 3?

Ja ☐ Nei ☐

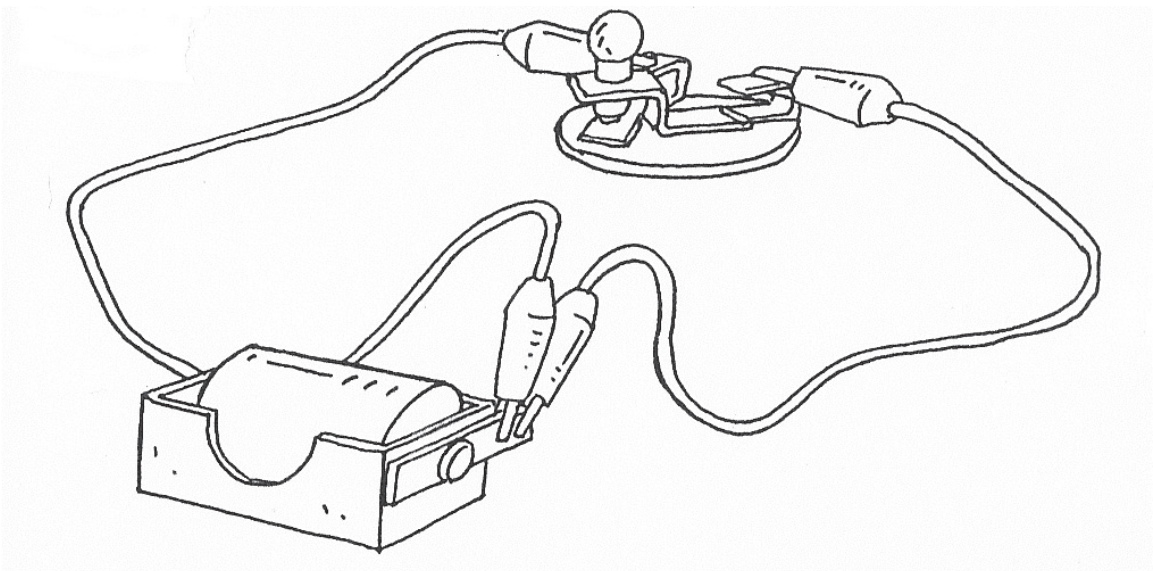

Mynd 3

b) Hví?

Tí peran er leys ☐

Tí leidningarnir eru skeivt settir saman ☐

Tí lutirnir eru rætt settir saman ☐

Ellæra

8. Hvørjir av hesum lutum eru á myndini?
   Set x í kassan fyri rætt svar.

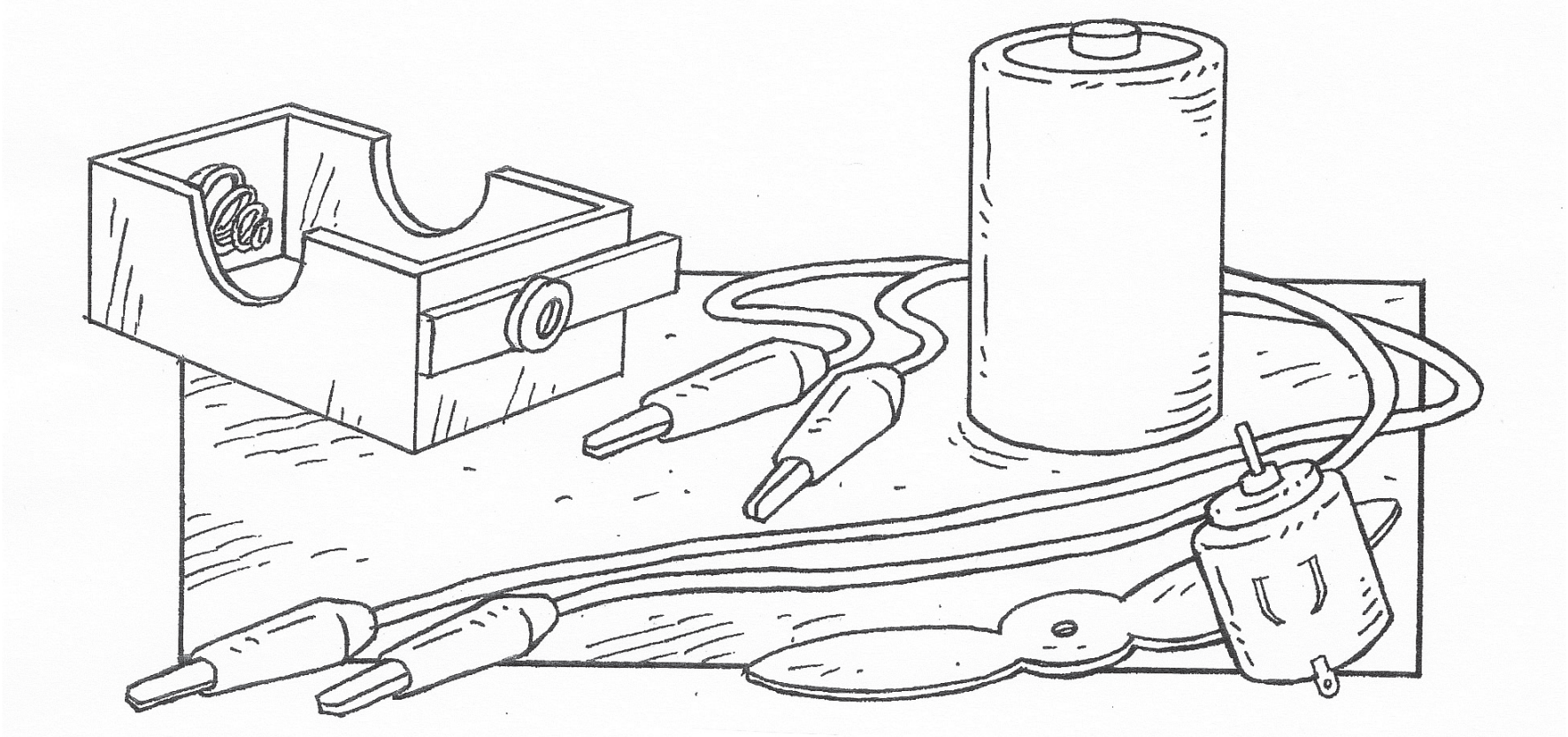

Battarí	☐	Bilmotorur	☐
Leidningur	☐	Kumpass	☐
Battarídós	☐	Elmotorur	☐

Vatn

9. Hvussu heitt er kókandi vatn?
Set x í kassan fyri rætt svar.



10 hitastig ☐

50 hitastig ☐

75 hitastig ☐

100 hitastig ☐

Sansar

10. a) Hvussu nógvar sansar hava vit?
Set x í kassan fyri rætt svar.

3 ☐

5 ☐

7 ☐

b) Tekna striku frá súreplinum sum vísir, hvønn veg vit lukta.

c) Hvussu sær eyga út í myrkri?
Set ring um røttu myndina.

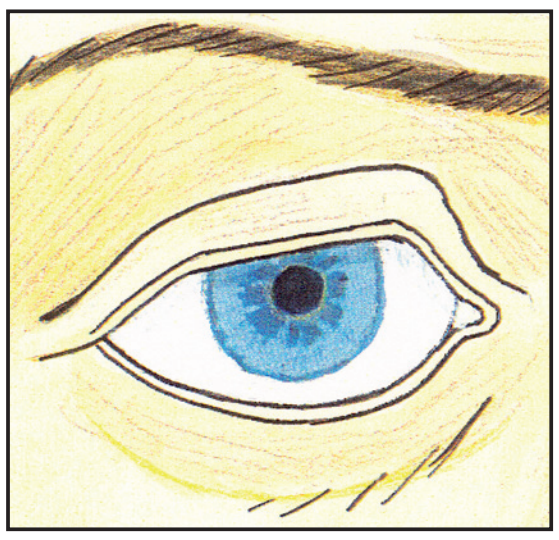

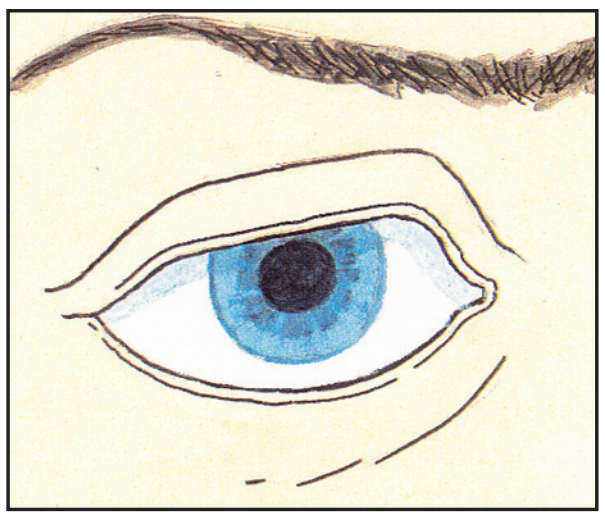

NORÐURLENDSKT UMHVØRVISMERKI
SVANAMERKTUR PRENTLUTUR 541 705
Føroyaprent